Propuesta de trabajo de Geografía de América

2do Año CPEM 46

PROFESORES: Condorí Victoria; **2do A, B** angeles-victoria015@outlook.com

Ledesma Luis Rodrigo; **2do C** lrodrigo90@outlook.com (La primera letra del correo electrónico es L minúscula)

Metodología de trabajo

Se comentara a continuación como se trabajara en este proceso de **recuperación de febrero**, con aquellos estudiantes que por diferente situación no han podido realizar y enviar la resolución de las actividades que propusimos los profesores durante el año 2020.
En este documento podrán encontrar una serie de actividades que deberán ser realizadas en su totalidad, **la fecha de entrega establecida es el lunes 15 de marzo hasta las 17:00 hrs. se sugiere no esperar hasta el último día.**

- Recuerden colocar el nombre completo y apellido, como también curso y división.
- Si desarrollas la actividad en hojas y la envías como fotografía trata de que sea legible y clara.
- Ante cualquier duda pueden consultar con su respectivo profesor vía mail.
- Las consultas serán recibidas en los horarios de 9 a 20 hrs.

SE DEJA EN CLARO QUE "**NO SE RECIBIRA NINGUN TRABAJO FUERA DE LA FECHA Y HORA ESTABLECIDA"**

América en el mundo

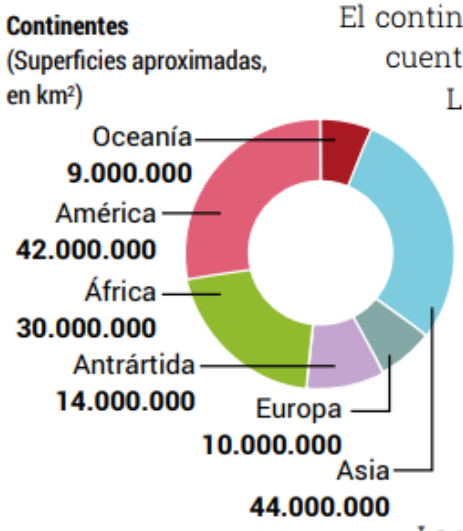

El continente americano, con sus 42 millones de km² de extensión, se encuentra en el segundo lugar entre todos los continentes por su superficie. Le corresponde el 28% del total de las tierras emergidas y representa solo el 8% de la superficie del planeta.

El nombre de "América" proviene del navegante italiano Américo Vespucio, quien visitó las nuevas tierras y en sus cartas manifestó que las tierras descubiertas por Colón constituían un "Nuevo Mundo", denominación que propuso. Por tal motivo, el continente no lleva el nombre de Cristóbal Colón, quien lo descubrió en 1492. Este nombre quedó relegado a la actual Colombia y a otros pequeños lugares del planeta. Por ejemplo, la localidad de Colón en la provincia argentina de Entre Ríos.

La posición geográfica de América en el mundo le brinda singularidades como, por ejemplo:

- América se emplaza, prácticamente por entero, en el hemisferio occidental. En efecto, salvo algunas pequeñas islas del archipiélago americano de las Aleutianas, el continente se localiza en el hemisferio definido por el meridiano de Greenwich (0° de longitud) y su respectivo antimeridiano (180° de longitud);

- América se desarrolla ampliamente en el sentido de las latitudes. Entre los puntos extremos Norte y Sur la distancia es aproximadamente de 15.500 km. En efecto, el continente americano presenta territorios tanto en la zona polar ártica como en la subpolar antártica y está atravesado por cuatro de los cinco paralelos que delimitan zonas climático-astronómicas. Esta singularidad otorga al continente una extraordinaria variedad de climas, lo que se refleja en las características que presentan la flora y la fauna, en la distribución de la población y en las actividades económicas;

- presenta estaciones del año opuestas entre las tierras situadas al Norte y al Sur del Ecuador. Esto permite una complementariedad en el intercambio de productos;

- América está plenamente aislada de otras masas emergidas pues está rodeada por los océanos Glacial Ártico (al Norte), Atlántico (al Este) y Pacífico (al Oeste). Esto da origen a un gran desarrollo costero;

- América está integrada por dos grandes masas emergidas de forma aproximadamente triangular, unidas por un istmo montañoso y volcánico, a lo que se adiciona un conjunto de guirnaldas insulares. El bloque del Norte se extiende hacia el Oeste y el bloque del Sur hacia el Este. Ambos presentan semejanzas de relieve: grandes cordilleras al Oeste, macizos antiguos al Este y extensas llanuras en el centro. La distancia máxima Este-Oeste es de 7.000 km.

Las divisiones de América

América es un solo continente pero de todos modos es posible efectuar en él varias diferenciaciones mediante la aplicación de distintos criterios.

Desde un punto de vista geográfico, América se divide en América del Norte, Central y del Sur. La división entre América del Norte y Central coincide con el límite político entre México, Guatemala y Belice, mientras que el límite entre Panamá y Colombia divide América Central de América del Sur.

También puede establecerse esta división geográfica teniendo en cuenta un criterio geológico. De esta manera, el límite entre América del Norte y Central se encuentra en el istmo de Tehuantepec, en México. En cambio, el límite entre América Central y del Sur está representado por una línea que se apoya en dos ríos colombianos: el río Atrato, que desemboca en el mar Caribe, y el río San Juan, que desemboca en el océano Pacífico. El arco de islas localizadas en el mar Caribe también forma parte de América Central y constituye un área del continente con gran complejidad geológica.

Desde un punto de vista cultural y económico se pueden diferenciar dos grandes unidades: **América anglosajona** en la parte septentrional y **América latina** en la zona meridional. Esta división atiende sobre todo a características culturales, que se ponen de manifiesto en nuestros días a través de desigualdades económicas y sociales. Otros tratadistas consideran que América latina

Iberoamérica

Hispanoamérica

Caribe

de la periferia del mundo industrializado, independientemente de su lengua y su cultura.

El límite entre estas dos Américas está ubicado en el río Grande, que constituye gran parte del límite internacional entre los Estados Unidos y México. América anglosajona está integrada por Canadá, Groenlandia y los Estados Unidos; el resto de América forma parte de América latina.

La denominación América latina fue acuñada por autores franceses y se impuso en la literatura internacional. Con respecto al Caribe (o sea, la porción de América constituida por la América Central insular), también conocido como el "Mediterráneo americano", algunos autores lo excluyen y lo consideran una unidad especial. Esto se debe a la gran fragmentación política resultado de las colonizaciones de distintos países europeos: España, Reino Unido, Francia y Holanda. Se destaca por poseer distintas lenguas, influencias culturales y gran porcentaje de mestizos y de población de origen africano.

Así como a América anglosajona también se la conoce como la "América pos industrial", la "América del desarrollo" o la "América del primer Mundo", para América latina se propusieron otras denominaciones como "Indoamérica", "Indolatina", "Amerindia" o "América del subdesarrollo". Indoamérica hace referencia a los pueblos indígenas originarios del continente e Indolatina pone de relieve la mezcla entre los pueblos originarios y los europeos. También es válida Iberoamérica, por haber sido colonizada en su mayor parte por España y Portugal, países que integran la península ibérica en Europa. Por último se la reconoce como Hispanoamérica, en este caso sin el Brasil. Reúne a los países colonizados por España, donde predomina la lengua española que es el idioma oficial.

División geográfica estructural

División geográfica política

División socio-cultural

Los límites y las fronteras de América

El sentido de pertenencia es un rasgo común en la sociedad, los grupos humanos organizan y utilizan el espacio de acuerdo con su cultura; para ordenarlo y administrarlo lo delimitan por medio de los límites y fronteras.

Antes de analizar la división política del continente americano, debemos comprender que son los límites y las fronteras. Existe una diferencia entre límites y fronteras, dos términos que se utilizan para demarcar o asignar el espacio o territorio de país, estados, provincias entre otros; sean estos a nivel nacional o internacional. Para ello, se utilizan líneas imaginarias o separaciones de agua, picos, y porciones de tierra. Básicamente, los límites permiten el desarrollo de actividades políticas, y administrativas entre otras. Mientras que, la frontera limita donde comienza y termina un país para llegar a otro, estos espacios requieren de resguardo y vigilancia, para evitar la entrada y salida de personas y mercancía de forma ilegal. La diferencia entre límite y frontera, es que la frontera es la franja territorial de tránsito social entre dos culturas, o en sentido general y amplio, es un espacio contiguo de una parcela o un predio; mientras que el límite, es una línea imaginaria que marca el fin de algo (una superficie, una estado, una situación).

Actividad de resolución 1

a) A partir de la lectura del texto "**América en el mundo**", escribe en forma de ítems, las características que se les otorga a América por su posición geografica.

b) Utilizando el texto "**Las divisiones de América**" completa el cuadro con los criterios formulados a partir de las diferentes divisiones y puntos de vistas.

División Geografica	Punto de vista cultural

c) ¿Qué relación puedes mencionar entre las imágenes y el texto "**Límites y Fronteras de América"**?

d) Observa los mapas e identifica a cuál de las América corresponde cada una según el texto "Divisiones de América"

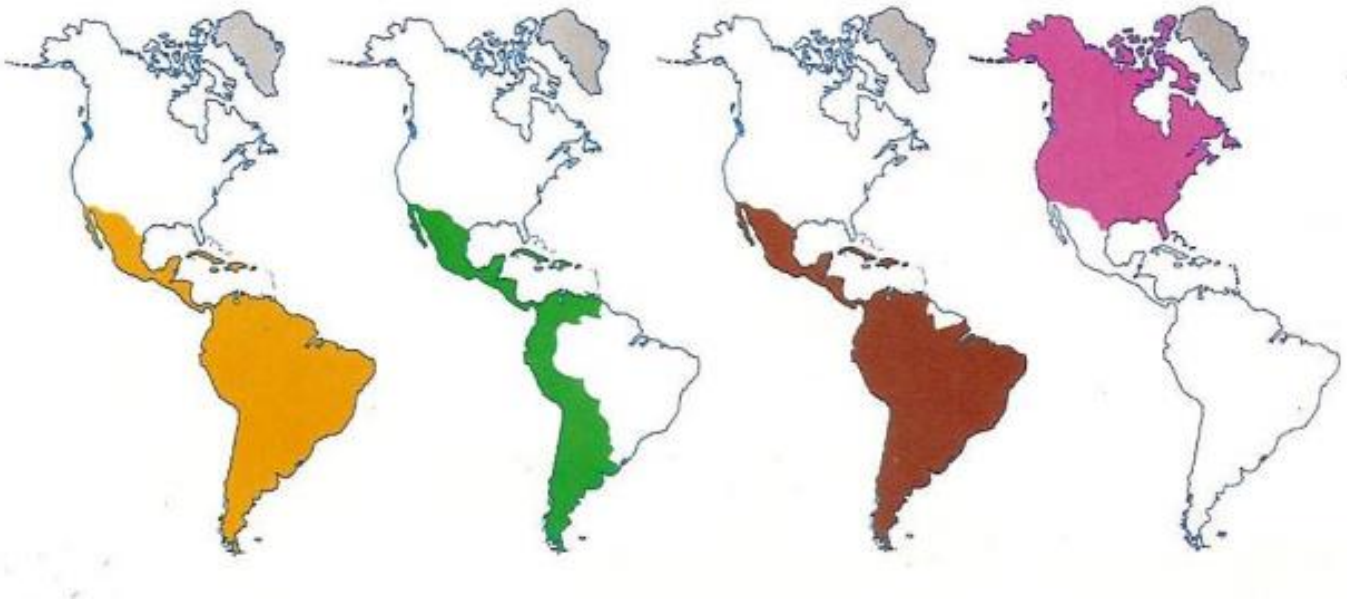

Una América y varias divisiones

En los países desarrollados, la mayoría de los habitantes disfrutan de un alto nivel de bienestar; o sea que pueden satisfacer la mayoría de sus necesidades. Esto significa que acceden a un elevado nivel de consumo de bienes productos (desde los básicos como alimentos, hasta los más sofisticados como electrodomésticos, computadora, etc.) y también a variados y eficientes servicios, como la salud, educación y recreación. Además poseen buenos sistemas de administración de justicia y de seguridad pública, y acceso a condiciones ambientales adecuadas.

Realiza la lectura del siguiente texto.

Desarrollo y subdesarrollo

Durante el siglo XX los países que arribaron primero a la industrialización (Gran Bretaña, Estados Unidos, Francia, Alemania, Países Bajos, Italia y Japón) mostraron una evolución que los alejó de aquellos países que no habían comenzado a manufacturar sus productos o se hallaban en las primeras etapas de ese proceso.

Mientras esos países mostraban progresos considerables en cuanto a la riqueza, el poderío económico y los niveles de vida de su población, otros parecían no avanzar y estar cada vez más rezagados en relación con los países industrializados. Se identificó como "desarrollo" la situación de los primeros países industrializados y como "subdesarrollo" la de aquellos con menores avances en lo económico y social.

Habitualmente se denomina **países "en vías de desarrollo"** a los países subdesarrollados. Sin embargo, esta expresión no siempre es precisa, ya que si bien hay países subdesarrollados que logran mejorar su situación y alcanzar niveles de bienestar aceptables –en este caso, el uso de la expresión "en vías de desarrollo" sería correcto–, otros no lo logran e incluso retroceden.

Un ejemplo de país que ha logrado superar el subdesarrollo es Corea del Sur, que al industrializarse alcanzó mejores niveles de vida para la mayoría de su población, y así se acercó a los estándares de los países desarrollados. El caso inverso es el de algunos países de África que han sufrido guerras y catástrofes naturales, y que han retrocedido en materia de producción, educación o salud.

Se puede decir que la **idea de desarrollo** se asocia a una economía industrial, con modernas técnicas de producción en todas las áreas (incluidas las del agro), con buenos niveles de consumo, de salud y de educación para una parte importante de la población.

Por su parte, el **subdesarrollo** se relaciona con la escasa industrialización, con el uso de técnicas productivas anticuadas y con el desequilibrio entre sectores modernizados y tradicionales, tanto productiva como culturalmente. De este modo, se considera a un país como subdesarrollado cuando amplios sectores de su población viven en la pobreza, existen administraciones estatales débiles, malos servicios públicos y pocos empresarios dispuestos a invertir e introducir innovaciones en el sector productivo. Los productos que estos países venden en el mundo tienen un escaso grado de elaboración, por lo que no requieren una población instruida ni capacitada.

La teoría de la dependencia

Entre las ideas que han tratado de explicar las diferencias en el desarrollo de los países, una de las más destacadas es la llamada "teoría de la dependencia". Esta sostiene que el subdesarrollo es producto de una situación muy compleja por la cual los países menos desarrollados dependen en los aspectos económico, político, económico, cultural y militar de los países desarrollados. Esta dependencia se fue gestando a lo largo de la historia y ha sido alimentada tanto por los gobiernos de los países desarrollados como por los de los países subdesarrollados. En América Latina, un ejemplo es la dependencia nacida en la etapa colonial y que pudo ser superada en primera instancia con los procesos independentistas. Sin embargo, posteriormente los lazos dependientes se restablecieron a través de préstamos y recursos que los países latinoamericanos solicitaron a los países ricos.

Actividad de resolución 2

a) A partir de la lectura del texto "Desarrollo y subdesarrollo", elabora tu propia definición de desarrollo y subdesarrollo.

b) Explica con tus palabras ¿a qué hace referencia la teoría de la dependencia?

c) Nombra un país desarrollado de América y un país subdesarrollado, luego justifica tu elección.

Las bases naturales de América

Los paisajes que observamos en la actualidad se formaron hace millones de años, pero continúan transformándose. Diversas teorías explican los procesos que forman los relieves emergidos y los submarinos.

Para comprender mejor te invito a realizar una lectura del libro Santillana de Geografía**, "América: Sociedad y espacios" (la bibliografía se encuentra al final del documento)**. En ellas podrás encontrar múltiples características de los grandes relieves presentes en nuestro continente.

Actividad de resolución 3

Una vez realizada la lectura desarrolla las siguientes actividades:

a) Elabora una red conceptual donde señales las características de los ambientes montañosos, los ambientes de sierra y mesetas y los relieves más jóvenes las llanuras. **(recuerda solo las características más importantes).**

b) Realiza la lectura del siguiente fragmento de "**Harry Hess"** luego comenta; ¿Cómo se puede justificar la hipótesis de Harry Hesse? ¿Por qué representó una revolución científica?

Movimientos submarinos

En 1960, el geólogo estadounidense Harry Hess formuló la teoría de la expansión del fondo oceánico, basada en la hipótesis de que las corrientes conectivas del manto provocaban el movimiento de la corteza terrestre. El estudio del fondo oceánico demostró la existencia de las cordilleras submarinas denominadas dorsales centro-oceánicas, en las que observó actividad sísmica y volcánica. Además, sostenía que las dorsales oceánicas estaban sobre zonas de ascenso convectivo del manto y que el material despedido por los volcanes submarinos formaba nueva corteza oceánica. Según Hess, donde la corriente convectivo descendía, la corteza oceánica era empujada hacia el interior de la Tierra; allí volvía a fundirse en el manto y se renovaba constantemente.

Las estructuras más antiguas del continente: macizos, escudos y mesetas

Los macizos, las mesetas y los escudos son las estructuras más antiguas del continente, ya que su origen se remonta a los tiempos precámbricos o a la era Paleozoica, por ello fueron muy afectadas por la erosión, y dieron lugar a formas suaves y redondeadas y menores alturas. Entre ellas se encuentran el escudo Canádico y los montes Apalaches en el norte; y los macizos de Guayana, Brasilia y Patagónico en el sur.

El **escudo Canádico** ocupa casi 5 millones de km^2. Se extiende en el norte de América, en la Tierra de Baffin e incluye parte de Groenlandia. El sector nordeste presenta un relieve relativamente llano, cuya altura desciende suavemente hacia la Bahía de Hudson. Esta zona ha sido invadida por los hielos en distintas etapas geológicas, por lo que fue fuertemente erosionada y dio lugar a la formación de numerosos lagos. Al sudoeste, en cambio, el escudo desciende de manera abrupta y da lugar a grandes saltos, como es el caso de las Cataratas del Niágara.

Los **montes Apalaches** se extienden por el nordeste de Estados Unidos. Estos montes, originados en la Era Paleozoica, forman un conjunto de sierras bajas, redondeadas y separadas por valles. Sus vertientes configuran diferentes paisajes: la oriental, más escarpada, es atravesada por ríos con grandes saltos; la occidental desciende suavemente hacia la llanura del Mississippi. Los montes Apalaches están separados del litoral por la llanura costera del Atlántico, donde se localizan importantes ciudades de Estados Unidos.

El **Macizo de Guayana** abarca los territorios de Venezuela, Guyana, Surinam, Guayana Francesa y Brasil. Fue fracturado y ascendido durante la orogenia andina. Por ello, los ríos que lo atraviesan son profundos y presentan saltos y cascadas; el Salto del Ángel (Venezuela), con cerca de 1.000 m de altura, es el más alto del mundo. El macizo de Guayana desciende suavemente hacia el Atlántico, mientras que hacia el sur presenta una ladera abrupta, conocida con el nombre de sierra. En algunos sectores, el zócalo está cubierto por sedimentos que contienen minerales importantes, como el hierro y la bauxita.

El **Macizo de Brasilia** se extiende en la parte oriental de América del Sur, principalmente en Brasil, y es el mayor macizo de Sudamérica. Presenta fracturas en dirección norte-sur de origen mesozoico, por las cuales discurren destacados ríos como el Paraguay, Paraná, San Francisco e Iguazú. Algunos de ellos tienen importantes saltos, como el caso de las Cataratas del Iguazú.

El **Macizo Patagónico** está ubicado en el sudeste de América del Sur. Conforma un conjunto de mesetas escalonadas que descienden de oeste a este, forman acantilados en el océano Atlántico y se prolongan en la plataforma continental, donde emergen las Islas Malvinas. Está cubierto por sedimentos paleozoicos y material volcánico (basalto) de edad terciaria y cuaternaria, y por sedimentos marinos.

Las mesetas suelen tener grandes depresiones o bajos originados por la acción del viento (erosión eólica), que sopla desde el oeste hacia la costa, o por hundimientos provocados por los movimientos tectónicos. El Gran Bajo del Golfo de San Julián, con 105 m de profundidad, es la mayor depresión del continente.

El **Sistema de Ventania** se ubica en el sudoeste de la provincia de Buenos Aires. Está compuesto por rocas precámbricas que fueron fracturadas y elevadas en la Era Mesozoica. Posee una altura promedio que no supera los 1.100 m; el cerro Tres Picos, con 1.239 m, es el más alto.

Finalmente, el **Sistema de Tandilia** es un macizo muy antiguo fracturado, ascendido y erosionado en distintas etapas geológicas. Se destacan las Sierras de Tandil y la Sierra de los Padres.

Conocé +

El altiplano es una estructura geológica que fue fracturada y ascendida, como es el caso de la Puna o los altiplanos boliviano, peruano, chileno y argentino. Presenta una extensa llanura rodeada de altos picos montañosos.



Altiplano chileno.



Salto del Ángel, Venezuela.

Gran Bajo de San Julián, Santa Cruz, Argentina.

Monte McKinley, Alaska, Estados Unidos.

Las estructuras más inestables: las montañas

América posee una estructura montañosa relativamente joven (desde el punto de vista geológico, ya que se ha desarrollado en gran parte en la era Cenozoica) y continúa sobre la franja oeste del continente.

En **América del Norte** encontramos el **Macizo Plegado del Oeste**, que se extiende desde el Estrecho de Bering hasta el Istmo de Tehuantepec. Tiene su origen en la subducción de la placa Pacífica por debajo de la placa Norteamericana. Es una formación joven que se manifiesta tanto en sus grandes alturas y formas abruptas del relieve, como en su gran inestabilidad (alta presencia de movimientos sísmicos y erupciones volcánicas). Está formado por dos cordilleras: una al oeste, conocida como la **Cadena de la Costa**, y otra al este, denominada **Rocosas o Rocallosas**.

La Cadena de la Costa se ubica en el litoral Pacífico. Tiene el pico de mayor altura en Estados Unidos (monte McKinley, de 6.194 m) y numerosos volcanes en actividad. Las montañas Rocosas o Rocallosas se extienden paralelas a la cadena costera; hacia el este se ponen en contacto con las grandes llanuras centrales y hacia el oeste descienden hasta las mesetas interiores. Deben su nombre a la gran cantidad de fragmentos rocosos que las conforman. Las Rocallosas presentan abundantes recursos minerales como uranio, hierro, cobre, plomo y carbón, entre otros.



Sierra Madre Occidental, México.

En México, dos encadenamientos paralelos entre sí y al océano Pacífico enmarcan la **Meseta Central de México**: la **sierra Madre Oriental** y la **sierra Madre Occidental**. Ambas se estrechan y disminuyen su altura hacia el sur hasta ser interrumpida por la **Cordillera Neovolcánica** y la **sierra Madre del Sur**.

La Meseta Central es un altiplano con una altura media de 2.000 m, rodeado de volcanes como el Popocatépetl. Los materiales volcánicos han dado lugar a la concentración de abundantes minerales.

En **América Central Ístmica** se extienden dos conjuntos montañosos principales: las **cordilleras paralelas al océano Pacífico**, de mayor altura y con volcanes, y los **cordones orientales**, de menor altura y perpendiculares a los anteriores. Esta zona se encuentra muy expuesta a los movimientos sísmicos y a las erupciones volcánicas, por estar localizada en un área de contacto entre las placas Caribe y de Cocos con las placas Norteamericana y Sudamericana.

América Central Insular está constituida por las islas Bahamas, las Grandes y las Pequeñas Antillas. Las Grandes Antillas, como Cuba, Puerto Rico, Jamaica y la Española (que incluye a los países de República Dominicana y Haití), presentan relieves montañosos que son una prolongación de los **cordones montañosos orientales** de la parte ístmica que, hundidos en otros tiempos geológicos, emergen en el mar Caribe.

Las Pequeñas Antillas son de origen volcánico. Uno de los volcanes más reconocidos es el Mont Pelée, con cerca de 1.400 m, en la isla de Martinica.

En **América del Sur** se extiende la **Cordillera de los Andes**, de más de 7.000 km de longitud, más de 200 km de ancho y un promedio de 3.360 m de altura, con su punto más alto en el Aconcagua en la Argentina (6.959 m). Se formó por la subducción de las placas de Nazca y Antártica con la Sudamericana.

En la Cordillera de los Andes se pueden reconocer tres grandes sectores:

Andes Septentrionales: se extienden desde la depresión de Barquisimeto en Venezuela hasta el Cerro de Pasco en Perú. Son cordones montañosos con picos volcánicos que alcanzan hasta los 5.000 m.

Andes Centrales: se desarrollan entre el Cerro de Pasco hasta el cerro Tres Cruces en el límite entre la Argentina y Chile. Es el tramo más ancho de toda la cordillera andina y el que presenta mayores alturas, con dos cordones separados por el altiplano andino. El pico máximo es Ojos del Salado (6.879 m). El complicado proceso de formación de los Andes favoreció el ascenso de distintos minerales, entre ellos, plata, oro, estaño, cobre, plomo y zinc.

Andes Meriodionales: ocupan el extremo sur del continente. Se dividen en los Andes de Transición, con picos importantes como el Aconcagua (6.959 m), el Tupungato (6.635 m) y el Mercedario (6.770 m); y los Andes Patagónicos, con picos destacados como el Tronador (3.478 m), el Fitz Roy o Chaltén (3.405 m) y las Torres del Paine (de alrededor de 3.000 m). En este sector se destacan los yacimientos minerales de nitratos, salitre, hierro, manganeso, mercurio y cobre.

Los Andes continúan por debajo del mar y reaparecen en las islas del Atlántico Sur, y emergen nuevamente en la Antártida.

Las formas de relieve más jovenes y estables: las llanuras

Las llanuras americanas se ubican en el este del continente. Sus orígenes se remontan al período Cuaternario de la Era Cenozoica. Su formación fue producto de la acumulación de capas de sedimentos provenientes de los ambientes montañosos y mesetarios (debido a la acción de agentes erosivos como el agua y el aire). En general, las llanuras coinciden con cuencas hidrográficas, esto es, la superficie drenada por el río principal y sus afluentes, de lo cual deriva el nombre con que se las conoce.

Las **planicies norteamericanas** se extienden desde el océano Glacial Ártico hasta el Golfo de México, y ocupan una gran cuenca de sedimentación, es decir, un área hundida de la corteza terrestre en la que se produce la acumulación de sedimentos de considerable espesor. Muchos de sus sedimentos contienen recursos minerales, como petróleo y gas, y suelos muy fértiles. Se pueden reconocer tres grandes unidades: la **pradera canadiense**, los grandes llanos o **gran llanura en los Estados Unidos**, recorrida por los ríos Missouri, Arkansas y sus afluentes, y la **Llanura del Mississippi**, que se extiende por el centro de Estados Unidos, en torno a este gran río (una las principales vías navegables de ese país).

La **Llanura del Orinoco** se ubica en el norte de América del Sur, en los territorios de Colombia y Venezuela. Se extiende sobre la mayor parte de la cuenca del Orinoco. Dentro de los sedimentos que constituyen su suelo, los depósitos marinos del Terciario encierran importantes yacimientos de petróleo.

La **Llanura del Amazonas** se extiende desde la costa atlántica hasta el comienzo de los Andes y abarca gran parte de la cuenca del río Amazonas, el río más caudaloso del mundo. Allí se destacan los yacimientos minerales y de petróleo.

La **llanura Chaco-pampeana** se desarrolla desde el Pantanal en el norte de Paraguay y sur de Brasil, hasta el sur de la provincia de Buenos Aires. Abarca parte de la Cuenca del Plata, atravesada por los ríos Uruguay, Paraguay, Paraná y el Río de la Plata. Esta llanura es una extensa cuenca de sedimentación formada por materiales continentales y marinos acumulados sobre bloques hundidos pertenecientes al Macizo de Brasilia.



▲ Volcán Lanín, límite entre la Argentina y Chile.

Conocé +

Grandes ciudades en las llanuras

Las llanuras americanas fueron utilizadas por las personas para fundar asentamientos que, con el correr del tiempo, se transformaron en las grandes ciudades que conocemos hoy en día. En la llanura Chaco-pampeana se localizan las ciudades capitales de Asunción, Montevideo, Buenos Aires y otras importantes como Rosario y La Plata; en la planicie central se ubican Kansas, Houston y Nueva Orleans; y en la llanura Amazónica, Belén, Manaos e Iquitos.

▲ Vista aérea del río Mississippi y la Gran Llanura.